特別進学コース

令和２年度
広島県瀬戸内高等学校一般入学試験問題

社　　会

（50　分）

注　意　事　項

1．試験開始の合図があるまで，この冊子を開いて見ないこと。
2．解答は必ず解答用紙の指定された箇所に記入すること。
3．問題・解答用紙に落丁，乱丁，印刷不明な箇所があれば申し出ること。
4．問題・解答用紙の指定欄の太枠内に，受験番号を忘れずに記入すること。
5．問題・答案は試験終了後，監督員の指示によって回収するので，終了の合図までそのまま静かに着席していること。
6．余白は自由に使って良い。

受験番号	

1　次の花子と太郎の会話はオリンピックに関係するものである。これを読んで以下の問いに答えなさい。

花子：ついにオリンピック・パラリンピックが開催されるわね。

太郎：そうだね。でも不安なのが2019年にも被害があった①関東地方への台風などの災害だね。無事に開催されるといいのだけれど。

花子：そうね。去年の10月頃は大変だったわ。

太郎：でも②世界のトップアスリートを間近で見ることができるのはとても楽しみだ。以前も日本でオリンピックが開催されているんだよね？

花子：そうよ。前回は第二次世界大戦が終戦して19年後の1964年に東京オリンピック・パラリンピックが開かれたわ。

太郎：戦後すぐなのにすごい。③東京がオリンピック開催地に選ばれた理由は何でだろ。

花子：一度目は，1964年日本が④高度経済成長下で，開催されたのよ。次のグラフを見てみて。すると日本の経済が1955年から70年頃までの間，年平均で10％程度の成長しているのが分かるわ。

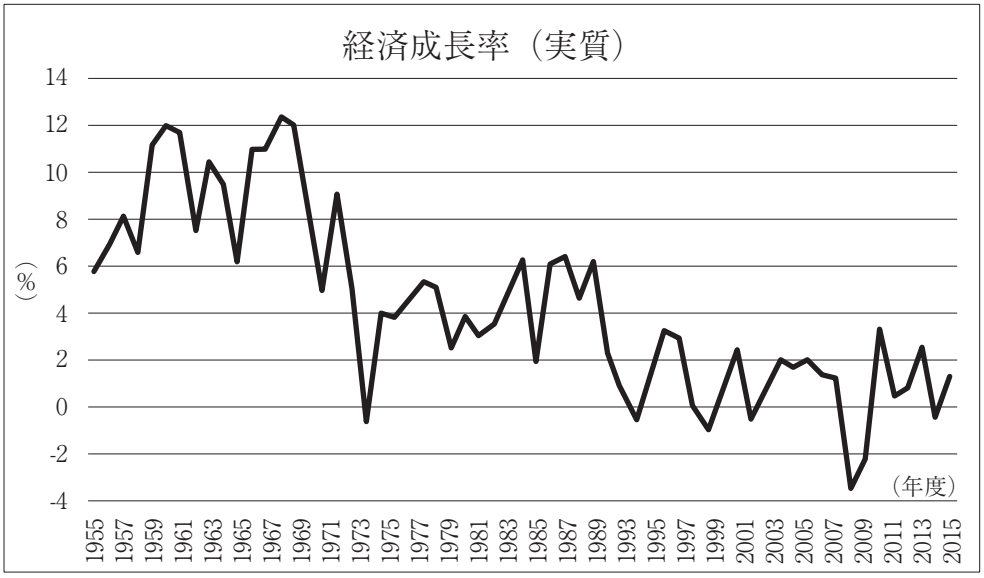

太郎：本当だ。経済成長から戦後の復興が進んだことがわかるね。「復興」といえば最近「復興五輪」という言葉をテレビで耳にしたよ。

花子：⑤それは2011年３月11日に発生した（　X　）からの「復興」という意味だね。それにしても日本が何個のメダルを獲得できるか，楽しみだね。

太郎：そうだね。それに令和初となる金メダリストが出るといいね。

問１　下線部①について，(1)と(2)に答えなさい。

(1)　下の文章中の（ Ａ ）と（ Ｂ ）に適する語句を答えなさい。

関東地方の地形は，関東平野に流域面積最大の利根川が流れている。川が刻む広大な台地は，富士山などの火山灰が堆積した赤土（　Ａ　）に覆われており，多くが畑作地帯になっている。冬は乾燥し，（　Ｂ　）と呼ばれる冷たい北西の季節風が吹く。

(2)　下の図は，オリンピック開催地の東京・リオデジャネイロ・ロンドンの雨温図である。東京の雨温図として正しいものを，次のア～ウから一つ選んで記号で答えなさい。

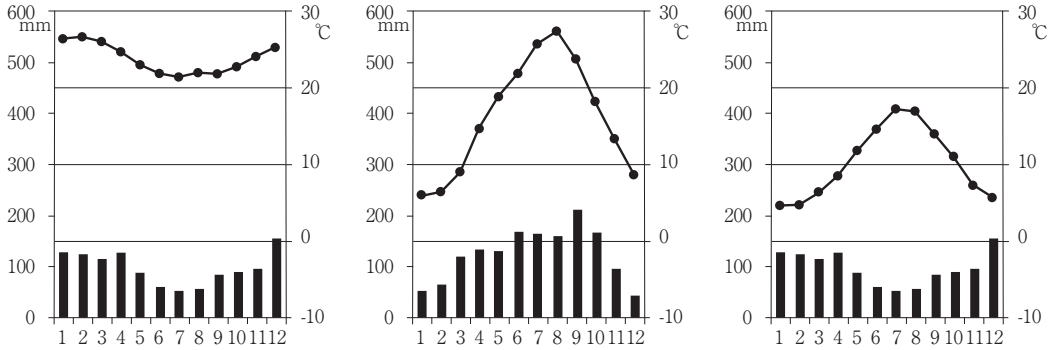

（ア）　（イ）　（ウ）

問２　下線部②について，地図を見て(1)と(2)に答えなさい。

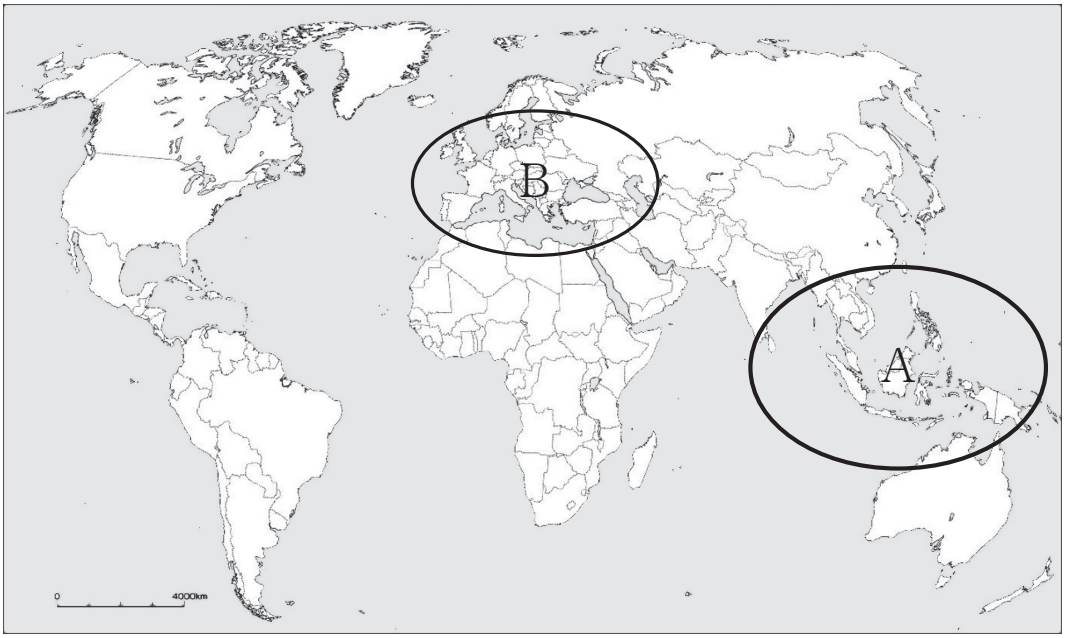

⑴　Ａ地域において，タイやマレーシア，インドネシアなど10か国の社会，政治，安全保障，文化に関する地域協力機構を**アルファベット５字**で何というか答えなさい。

⑵　Ｂの地域で，経済的･政治的な統合を目指して，1993年に発足した組織の略称を**アルファベット２字**で何というか，答えなさい。

問３　下線部③について，日本の中枢機能をもつ東京大都市圏についての説明として**適当でないもの**を，次のア～エから一つ選んで記号で答えなさい。

ア．大都市圏では，地価が高く，住宅問題やゴミ問題など過密に伴う問題を抱えている

イ．大都市圏を形成する地域として，さいたま市，千葉市，相模原市，横浜市などがある

ウ．東京が2020年夏季オリンピック・パラリンピックの開催地として選ばれた理由は，治安の良さや都市機能の高さ，競技場間を結ぶ公共交通機関が充実しているからである

エ．大都市圏では，第三次産業よりも第二次産業人口が増加している

問４　下線部④について，下の写真を参考に，高度経済成長を背景に日本で起きた公害問題の種類について，**漢字４字**で答えなさい。

問５　下線部⑤について，⑴と⑵に答えなさい。

⑴　（　Ｘ　）に適する語句を**漢字６字**で答えなさい。

⑵　日本列島は，近年様々な災害が発生している。その中で都道府県が公表している自然災害による被害を予測した被害予測地図のことを**カタカナ７字**で何というか答えなさい。

2　ある中学校の３年１組の生徒が，県立美術館に世界の歴史的な建造物や美術品，出土品の写真展を見に行った。後日，見学に行った生徒がそれぞれ印象に残った写真とその歴史的な建造物や美術品，出土品にまつわる歴史や地理について調べ，レポートを提出した。生徒Ａ～Ｄのレポートの内容を読んで，以下の問いに答えなさい。

〔生徒Ａ〕



○名称：ピラミッド

○時期：古代エジプトではBC2700 ～ BC2500年頃

○文明：（　Ⅰ　）文明

○場所：①ナイル川の流域

○目的：王や王妃の墓，王の権威を象徴するもの

問１　レポートの（ Ⅰ ）に適する語句を答えなさい。

問２　下線部①について，地図中ａ～ｄからナイル川を一つ選んで記号で答えなさい。

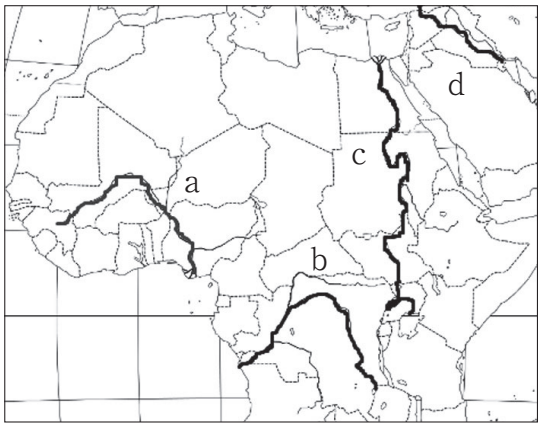

〔生徒Ｂ〕

○名称：（　Ⅱ　）

○時期：②秦の始皇帝の時代

○場所：皇帝陵の周辺から発掘

○驚き：約8000体もの兵士や文官の像を発見

○目的：（　Ⅲ　）

問３　レポートの（ Ⅱ ）に適する語句を，次のア～エから一つ選んで記号で答えなさい。

ア．土偶　　イ．埴輪　　ウ．唐三彩　　エ．兵馬俑

問４　レポートの（ Ⅲ ）について，始皇帝は何の目的でこれを製造したと考えられているか。「場所」や「驚き」のレポートをヒントに簡潔に記述しなさい。

問５　下線部②について，始皇帝は，円形の銭のモデルを作ったとされている。以下の写真の中で始皇帝が鋳造させた貨幣の写真として正しいものはどれか。次のア～エから一つ選んで記号で答えなさい。

ア．

イ．

ウ．

エ．

〔生徒Ｃ〕

○名称：（　Ⅳ　）

○時期：BC130年～ BC100年頃

○文化：（　Ⅴ　）

○特徴：大理石でできた華麗で繊細な彫刻

○所蔵：ルーヴル美術館

問６　レポートの（ Ⅳ ）に適する語句を，次のア～エから一つ選んで記号で答えなさい。

ア．ラオコーン　　イ．ヴィーナスの誕生　　ウ．ミロのヴィーナス　　エ．モナ＝リザ

問７　レポートの（ Ⅴ ）にはこの時代の文化を表す式が当てはめられるが，正しいものは次のア～エのうちのどれか。一つ選んで記号で答えなさい。

ア．ヘレニズム文化　＝　ギリシア文化　＋　オリエント文化

イ．ギリシア文化　＝　ヘレニズム文化　＋　オリエント文化

ウ．オリエント文化　＝　ギリシア文化　＋　ヘレニズム文化

エ．ミケーネ文化　＝　ヘレニズム文化　＋　オリエント文化

〔生徒Ｄ〕

○名称：③ナポレオン＝ボナパルト

○時期：1769 ～ 1821年

○活躍：④フランス革命末期に外国との戦争で活躍，革命を終結させて皇帝の位に就いた

○所蔵：ルーヴル美術館

問８　下線部③について，彼がつくったナポレオン法典は世界のある法律の先駆けとなったが，ある法律とは何か。次のア～エから正しいものを一つ選んで記号で答えなさい。

ア．民法　　イ．刑法　　ウ．憲法　　エ．行政法

問９　下線部④について，フランス革命では戦争の最中に「自由と平等」「私有財産の不可侵」などを訴える宣言が出されたが，正しいものはどれか。次のア～エから一つ選んで記号で答えなさい。

ア．独立宣言　　イ．権利の章典　　ウ．人権宣言　　エ．大憲章

3　ある中学校の社会科の授業で，近畿地方の府県の歴史を調べて発表する学習を行った。グループ１～３までの発表を読んで，以下の問いに答えなさい。

〇グループ１「大阪」について

大阪は，戦国時代から安土桃山時代にかけて活躍した（　A　）との関わりが非常に深い場所でした。なかでも大阪城は彼が本拠地とした壮大な城で，南は九州から北は東北まで制圧できたのも，大阪の地を拠点としたからでした。彼は周りの様々な勢力と不必要な対立は決してせず，朝廷からは太政大臣や（　B　）などの官職に任命され，朝廷の力を利用して全国統一を成し遂げました。晩年に行った朝鮮出兵では，朝鮮の武将や（　C　）の援軍により侵略を阻まれ，彼の病死で日本は撤退しました。

その後，江戸時代においても大阪は栄え，「天下の台所」と呼ばれました。

問１　文章中の（　A　）と（　B　）に適する語句の組み合わせとして正しいものを，次のア～エから一つ選んで記号で答えなさい。

	A	B
ア．	豊臣秀吉	征夷大将軍
イ．	豊臣秀吉	関白
ウ．	徳川家康	征夷大将軍
エ．	徳川家康	関白

問２　文章中の（　A　）の人物について，(1)と(2)に答えなさい。

(1)　文章中の（　A　）の人物は自らが行った太閤検地のなかで，右の写真のような京枡を使った。その理由を答えなさい。

(2)　文章中の（　A　）の人物は，いくつかの政策によって武士と農民との身分の区別をはっきりさせた。このことを**漢字４字**で何というか答えなさい。

問３　文章中の（　C　）に適する中国の王朝名を，次のア～エから一つ選んで，記号で答えなさい。

ア．宋　　イ．元　　ウ．明　　エ．清

問４　下線部について，「天下の台所」と呼ばれたのはなぜか答えなさい。

○グループ２「奈良」について

奈良は古くから日本の政治や文化の中心地として栄えてきました。６世紀後半に活躍した聖徳太子（厩戸皇子）は女性の天皇であった推古天皇の（　A　）となると，大王（天皇）を中心とする政治制度を整えていきました。具体的には以下の２つの制度が整えられました。

一つ目は，（　B　）の制度です。これは，かんむりの色などで地位を区別しました。これにより，家柄にとらわれず，才能や功績のある人物を役人に取り立てようとしました。

二つ目は，（　C　）です。これは，仏教や儒学の考え方を取り入れたもので，天皇の命令に従うべきことなど，役人の心構えを示しました。

このほかにも，聖徳太子（厩戸皇子）は①遣隋使を派遣するなどの外交も行いました。

また，聖徳太子（厩戸皇子）は②仏教をあつく信仰したことでも知られています。

問１　文章中の（　A　）について，「天皇が女性であったり幼少期間であったりするときに置かれ，天皇の代理として政治を行う」ことを意味する語句が入る。**漢字２字**で答えなさい。

問２　文章中の（　B　）と（　C　）に適する語句をそれぞれ答えなさい。

問３　下線部①について，遣隋使を派遣したのはなぜか答えなさい。

問４　下線部②について，その一例として寺の創建があげられる。聖徳太子（厩戸皇子）によって創建された寺の写真として正しいものを，次のア～エから一つ選んで記号で答えなさい。

ア．

イ．



ウ．

エ．

○グループ３「京都」について

京都も奈良と同じく，古くから日本の政治や文化の中心地として栄えてきました。ときの天皇であった桓武天皇は794年に（　A　）（現在の京都市）に都を移しました。以後，約400年間にわたって（　A　）は，日本の政治や文化の中心地となりました。

９世紀末，菅原道真の意見によって①遣唐使が停止されると，唐の文化をふまえながらも，日本の風土，日本人の考え方や生活にあった文化を生み出していきました。これを（　B　）といいます。また，このとき女性による②文学作品が数多く誕生しました。

10世紀半ばには、念仏を唱えて阿弥陀如来にすがり，死後に極楽浄土へ生まれ変わることを願う③浄土信仰がおこりました。

問１　文章中の（　A　）に適する都の名前を，次のア～エから一つ選んで記号で答えなさい。

ア．長岡京　　イ．平城京　　ウ．藤原京　　エ．平安京

問２　下線部①について「遣唐使が停止」されたのはなぜか。当時の唐の状況をふまえて答えなさい。

問３　文章中の（　B　）に適する語句を**漢字４字**で答えなさい。

問４　下線部②について，紫式部によって書かれた日本文学最高峰の作品は何か答えなさい。

問５　下線部③に関連する下の写真の建物名を答えなさい。

4　あるクラスでは，社会科の授業でお金について調べて発表することになりました。各グループが作成した次のスライドを見て，以下の問いに答えなさい。

○グループ１　お金の成り立ちについて

物々交換→通貨が流通 日本で最初の銅銭は（　A　）である かつては①紙幣と引き換えに金がもらえるシステムだった

○グループ２　新しい通貨のデザインについて

2024年から新しい紙幣・貨幣のデザインになる 一万円札の肖像画は②渋沢栄一 五千円札の肖像画は津田梅子 千円札の肖像画は北里柴三郎 一万円札は1984年に聖徳太子から福沢諭吉になって以来40年ぶりの人物変更

○グループ３　銀行の役割について

銀行の仕事には預金業務・貸出業務・為替業務がある 銀行を通して企業などが資金を集めることを（　B　）という ③通貨量を管理するのは中央銀行である日本銀行の役割

○グループ４　税について

国民には④納税の義務がある（日本国憲法第30条） 政府は国民から集めた税金で⑤社会資本や公共サービスを供給する 租税収入は⑥社会保障費など国が抱える問題を解決するために使われる 消費税は⑦間接税に分類される

○グループ５　国家予算について

予算の審議・議決は国会の仕事である（日本国憲法第60条） 予算の審議は衆議院から先に行われるが，これを⑧衆議院の優越という

問１　文章中の（　A　）に適する語句を，次のア～エから一つ選んで記号で答えなさい。

ア．洪武通宝　　イ．富本銭　　ウ．長年大宝　　エ．永楽通宝

問２　下線部①について，このような制度を何というか答えなさい。

問３　下線部②について，渋沢栄一は日本で最初の株式会社を作った人物として知られる。株式会社はどのような仕組みで運営されているのか，以下の語句を必ず使って説明しなさい。

【　配当　　株式　　資金　　株主　】

問４　グループ４は，税の歴史について詳しく調べることにしました。

＜古代＞
・（　a　）…口分田の面積に応じて稲を納めること
・調…絹，糸，真綿，布，特産物を納めること
・庸…労役の代わりに布などを納めること

＜中世＞
・年貢…農民が領主に稲や布・絹などを納めたもの
・座…土倉や酒屋・商人や手工業者などは，同業者ごとに座と呼ばれる団体を作り，税を納めた

＜近世＞
・座を廃止し，さまざまな税や労役を免除することで自由な商工業の発展をはかった

＜近代＞
・関税自主権…国家が輸入品に対して自主的に関税を決められる権利
・地租改正…稲の収穫高ではなく，地価を基準にして税をかけた

⑴　空欄（　a　）にあてはまる語句を答えなさい。
⑵　近世の下線部は織田信長が実施した政策である。これを何というか答えなさい。

問５　文章中の空欄（　B　）に適する語句を漢字で答えなさい。

問６　下線部③について，以下の文章中のＡ～Ｃに適する語句を，次のア～イからそれぞれ一つ選んで記号で答えなさい。

日本銀行は，好景気の時は国債などを銀行からＡ（ア．売り　イ．買い），銀行から企業への資金の貸し出しをＢ（ア．増や　イ．減ら）そうとすることで景気をＣ（ア．おさえ　イ．回復させ）ようとする。

問７　下線部④について，日本国憲法が定める国民の義務のうち，納税の義務以外の二つを答えなさい。

問８　下線部⑤について，社会資本や公共サービスを政府が供給するのはなぜか。以下の語句を必ず使って説明しなさい。

【　利益　　民間企業　　重要　　国民生活　】

問９　下線部⑥について，以下は日本，アメリカ，スウェーデンの国民負担率と国内総生産（ＧＤＰ）にしめる社会保障費の割合を表したグラフと，それぞれの国民の意見である。このグラフと国民の意見，社会の様子から分かることとして正しいものを，次のア～エから**全て**選んで記号で答えなさい。

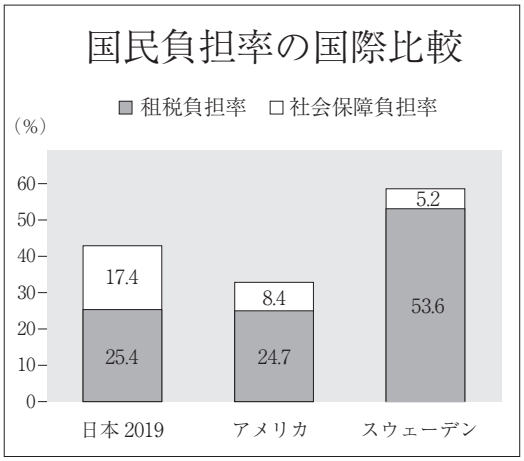

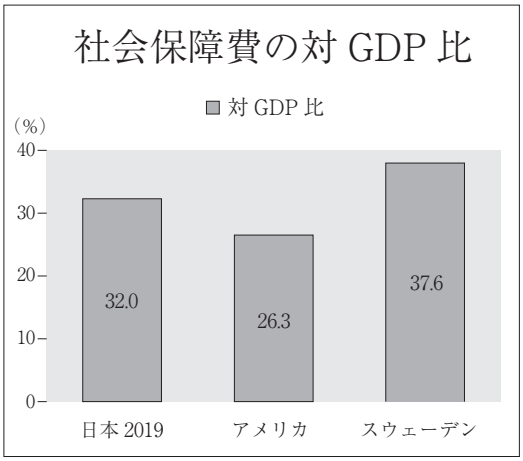

※国民負担率は社会保障費の税金による負担と国民による負担の割合
※日本のみ2019年度見通しの数値，他は2017年度の数値である

アメリカ国民の声

アメリカでは自己責任でいざという時に備える必要があるから，怪我や病気に気を付けて過ごしているよ。

日本国民の声

昨年消費税が10％に上がったのよ。仕方がないとはいえ，あまり買い物をする気になれないわ。

スウェーデン国民の声

スウェーデンは社会保障に対して，子どもを持つ人や高齢者から特に満足度が高いよ。

ア．スウェーデンのように，国民負担が大きいが社会保障も手厚い状態を高負担高福祉という。

イ．アメリカは三つの国で国民負担率が最も低いが，国が提供する社会保障が充実している。

ウ．日本は国民負担率よりも対ＧＤＰ比の方が高い。

エ．日本は増加する社会保障費をまかなうため，消費税を増税した。

問10　下線部⑥について，社会保障のような形で人々が人間らしく生きるために生活の基本的な保障を受けることができる権利を社会権という。社会権の一つが日本国憲法第25条１項に定められた生存権であり，日本国憲法では以下のように定められている。空欄に適する語句を解答欄に合うように答えなさい。

第25条１項 すべて国民は，(　　)の生活を営む権利を有する。

問11　下線部⑦について，以下の問いに答えなさい。

(1)　間接税とはどのような税か。以下の語句を必ず使って説明しなさい。

【　税を納める者　　税を負担する者　】

(2)　次のア～エのうち，全て間接税の選択肢を一つ選んで記号で答えなさい。

ア．所得税　　消費税　　酒税

イ．相続税　　法人税　　消費税

ウ．所得税　　自動車税　　贈与税

エ．消費税　　たばこ税　　入湯税

問12　下線部⑧について，衆議院の優越が定められている理由を，以下の語句を必ず使って簡潔に答えなさい。

【　解散　　任期　】